

Zadanie do wykonania 8

ycieczki nad jezioro odnajdź wymienione odne. Wpisz ich nazwy pod podanymi Na przekroju zbiornika wodnego rozmieść właściwej im strefie życia, wpisując cyfry.

1 .....

.....

Łodyga znajduje się w podłożu jeziora, nad wodą znajdują się liście i brązowy kwiatostan.

2 .....

.....

Jego wywar stosowany jest do mycia włosów.

3 .....

.....

W przeszłości stosowana do wykładania ścian budynków mieszkalnych.

.....

kszy
aczek.

5 .....

Pomiędzy liśćmi złocą się duże kwiaty.



6 .....

Ma przepiękne, ogromne kwiaty.



7 .....

Na jej zielonych liściach występują rdzawe plamki.



Zadanie do wykonania 9

Policz, ile piskląt ma pod opieką pływająca kaczka.

kaczuszek